विद्यालय का नाम : .....

द्वितीय आकलन (SA-2) — सत्र : 2026-27

कक्षा : 5 **विषय : गणित** **दिनांक :** .....

नाम : ..... **रोल नंबर :** .....

सभी प्रश्न हल करो। शिक्षक निर्देश पढ़कर सुना सकते हैं।

1. खरगोश की छलाँग के कदमों पर ✓ लगाओ।

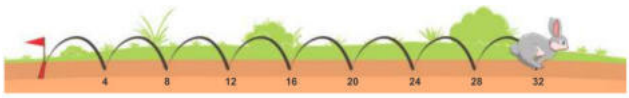

☐ 4-4 कदम (4 के गुणज) ☐ 3-3 कदम

2. चित्र देखकर खाली स्थान भरो।

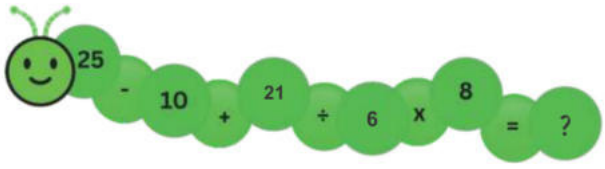

इल्ली में (?) के स्थान पर ..... आएगा। (48 / 36)

3. गुणज व गुणनखंड से खाली स्थान भरो।

1. संख्या 6 का पाँचवाँ गुणज है = ... (30 / 24)
2. 3 व 4 का सबसे छोटा सार्वगुणज = ... (12 / 7)
3. सबसे छोटा गुणनखंड हमेशा है = ... (1 / 0)
4. संख्या 15 का सबसे बड़ा गुणनखंड = ... (15 / 5)
5. क्या 7, संख्या 35 का गुणनखंड है = ... (हाँ / नहीं)

4. चित्र का उसके सही मान से मिलान करो।



4 × 4 = 16 वर्ग टाइलें

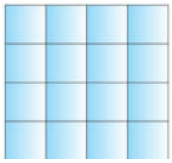

4 प्लेट में 16 लड्डू

5. छूटे हुए अंक भरकर समीकरण पूरे करो।

1. 45 + ... = 100 (55 / 65)
2. 120 − ..... = 70 (50 / 40)
3. 9 × ..... = 108 (12 / 14)
4. 84 ÷ ..... = 12 (7 / 6)
5. 250 + ... = 500 (250 / 350)
6. 15 × ..... = 150 (10 / 15)

6. 1 तीली हटाकर सही समीकरण लिखो।

(I)

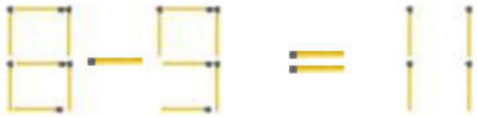

(ii)



कक्षा 5 | विषय : गणित | SA-2

7. सही विकल्प चुनकर ✓ लगाओ।

8 का प्रथम गुणज है : ☐ 8 ☐ 1

2 व 3 का सार्वगुणज : ☐ 6 ☐ 5

16 का गुणनखंड है : ☐ 8 ☐ 6

5 व 10 का सार्वगुणज : ☐ 10 ☐ 15

8. पहेली B में (?) के सही अंक पर ✓ लगाओ।

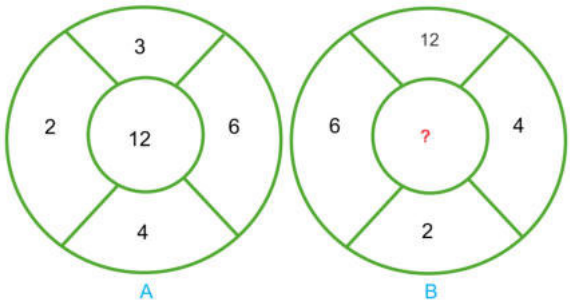

☐ 3 (क्योंकि 4 × 3 = 12) ☐ 6

9. गुणज और गुणनखंड के प्रश्न हल करो।

(i) संख्या 9 के प्रथम चार गुणज लिखो :

.....

(ii) संख्या 12 के सभी गुणनखंड लिखो :

.....

(iii) संख्या 20 के सभी गुणनखंड लिखो :

.....

(iv) 12 और 18 के सभी साझा गुणनखंड लिखो :

.....

10. ग्रिड में 12 वर्गों के आयत में रंग भरो।

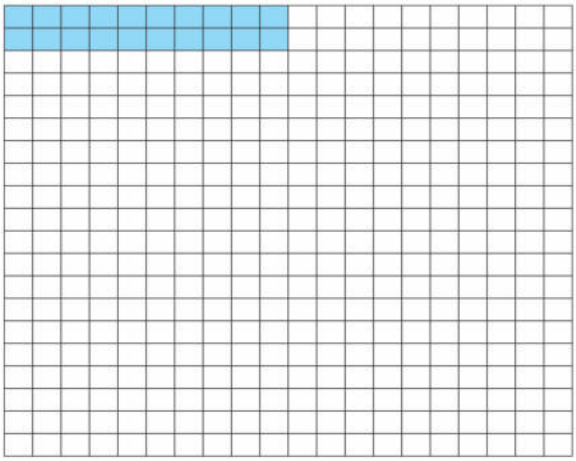

11. गुणज पैटर्न को पहचानकर पूरा करो।

(i) 14, 28, 42, 56, 70, ...

.....

(ii) 18, 36, 54, 72, 90, ...

.....

(iii) 25, 50, 75, 100, 125, ...

.....

(iv) 15, 30, 45, 60, 75, ...

.....

12. पाठ्यपुस्तक के प्रश्नों को हल करो।

(i) 4 और 6 के प्रथम दो साझा गुणज (सार्वगुणज) लिखो :

.....

(ii) 16 और 24 का सबसे बड़ा साझा गुणनखंड लिखो :

.....

(iii) एक संख्या का दुगुना 36 है, तो वह संख्या क्या है?

.....

(iv) 28 लड्डू बराबर बाँटने के कौन-कौन से तरीके हैं?

.....

शिक्षक की टिप्पणी : ..... हस्ताक्षर : .....