विद्यालय का नाम : .....

द्वितीय आकलन (SA-2) — सत्र : 2026-27

कक्षा : 5 **विषय : गणित** **दिनांक :** .....

नाम : ..... **रोल नंबर :** .....

सभी प्रश्न हल करो। शिक्षक निर्देश पढ़कर सुना सकते हैं।

1. तीनों मापों के कुल दूध पर ✓ लगाओ।



☐ 2 लीटर (2000 मि.ली.) ☐ 1 लीटर

2. चित्र देखकर खाली स्थान भरो।



चावल का भार 9 किग्रा ..... ग्राम है। (390 / 500)

3. भार व धारिता की इकाइयाँ बदलकर भरो।

1. 3 लीटर = ... मिलीलीटर (3000 / 300)
2. 4 किग्रा 500 ग्राम = ... ग्राम (4500 / 4050)
3. 2500 मिलीलीटर = 2 ली. ..... मि.ली. (500 / 50)
4. 1½ किलोग्राम में ग्राम = ... (1500 / 1200)
5. सवा लीटर में मिलीलीटर = ... (1250 / 1750)

4. चित्र का उसके सही नाम से मिलान करो।



पिरामिड / शंकु का जाल

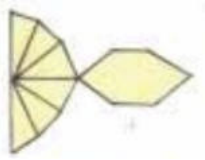

खुला गत्ते का डिब्बा

5. समय और घूर्णन सममिति के मान भरो।

1. 3 मिनट में सेकंड होते हैं = ... (180 / 300)
2. 2 घंटे में मिनट होते हैं = ... (120 / 200)
3. रेल घड़ी में 15:30 बजे हैं = ... (3:30 / 5:30)
4. वर्ग में घूर्णन सममिति का क्रम = ... (4 / 2)
5. समबाहु त्रिभुज में घूर्णन क्रम = ... (3 / 6)
6. सम षट्भुज में घूर्णन क्रम = ... (6 / 4)

6. डॉट ग्रिड पर वर्ग बनाकर आकृति पूरी करो।

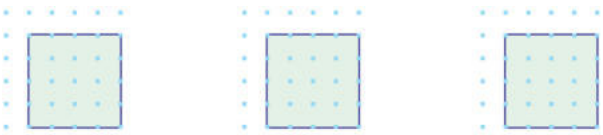

कक्षा 5 | विषय : गणित | SA-2

7. सही विकल्प चुनकर ✓ लगाओ।

पक्का नक्शा कहते हैं : ☐ नील पत्र ☐ कच्चा चित्र

गेंद की आकृति है : ☐ गोला ☐ बेलन

कैरम बोर्ड घूर्णन क्रम : ☐ 4 ☐ 3

पौने दो लीटर है : ☐ 1750 मिली ☐ 1250 मिली

8. सबसे बड़े क्षेत्रफल वाले जिले पर ✓ लगाओ।

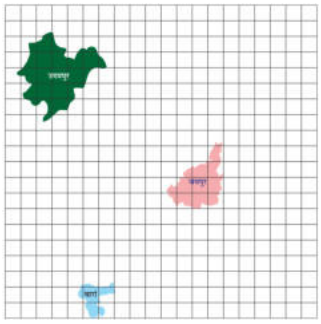

☐ उदयपुर (हरा रंग) ☐ बारां (नीला रंग)

9. परिमाप और क्षेत्रफल के प्रश्न हल करो।

(i) 6 मी. × 6 मी. के वर्गाकार हॉल का क्षेत्रफल :

.....

(ii) 6 मी. भुजा वाले वर्गाकार हॉल का परिमाप :

.....

(iii) 4 मी. लंबे व 3 मी. चौड़े रसोईघर का क्षेत्रफल :

.....

(iv) 8 सेमी × 5 सेमी के आयताकार केक का परिमाप :

.....

10. बगीचे के ग्रिड में बराबर भाग रंगो।



11. समय व मापन पैटर्न को आगे बढ़ाओ।

(i) 60, 120, 180, 240, ...

.....

(ii) 250 मि.ली., 500 मि.ली., 750 मि.ली., ...

.....

(iii) 12 इंच, 24 इंच, 36 इंच, 48 इंच, ...

.....

(iv) 9:15, 9:30, 9:45, 10:00, ...

.....

12. पाठ्यपुस्तक के प्रश्नों को हल करो।

(i) 10 किग्रा में से 9 किग्रा 390 ग्रा. बचा, कितना गिरा?

.....

(ii) 3 घंटे 40 मि. व 2 घंटे 30 मि. का कुल समय?

.....

(iii) 1 पेन 15 रु. 50 पैसे का है तो 2 पेन का मूल्य?

.....

(iv) नक्शे में 1 सेमी = 1 मी. है तो 6 सेमी की लंबाई?

.....

शिक्षक की टिप्पणी : ..... हस्ताक्षर : .....