**विद्यालय का नाम :** .....

# द्वितीय आकलन (SA-2) — सत्र : 2026-27

**कक्षा : 5** **विषय : गणित** **दिनांक :** .....

**नाम :** ..... **रोल नंबर :** .....

**सभी प्रश्न हल करो। शिक्षक निर्देश पढ़कर सुना सकते हैं।**

## 1. प्रत्येक बच्चे को मिले पराँठों पर ✓ लगाओ।

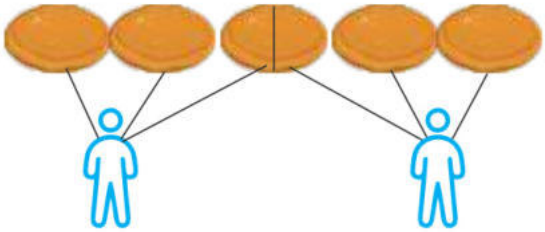

☐ 2½ (ढाई पराँठे) ☐ 1¼ (सवा पराँठा)

## 2. चित्र देखकर खाली स्थान भरो।

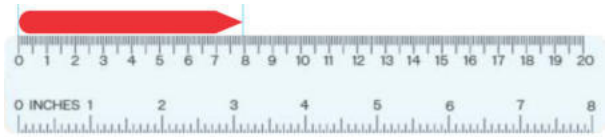


स्केल पर लाल रंग की लंबाई ..... सेमी है। (8 / 12)

## 3. भिन्न व दशमलव बदलकर खाली स्थान भरो।

1. भिन्न 7/10 का दशमलव रूप = ..... (0.7 / 0.07)

2. 15/100 का दशमलव रूप = ..... (0.15 / 1.5)

3. 0.9 का साधारण भिन्न रूप = ..... (9/10 / 9/100)

4. 1/3 के तुल्य भिन्न (अंश 2) = ..... (2/6 / 2/3)

5. ढाई को मिश्रित भिन्न में लिखते हैं = ..... (2½ / 1½)

## 4. वस्तु का उसकी आकृति से मिलान करो।



घनाभ (6 आयताकार फलक)

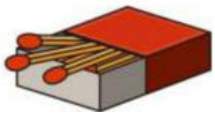

बेलन (गैस सिलेंडर)

## 5. मापन की इकाइयों के सही मान भरो।

1. 1 फीट में इंच होते हैं = ..... (12 / 10)

2. 1 गज में फीट होते हैं = ..... (3 / 5)

3. 1 मील में गज होते हैं = ..... (1760 / 1000)

4. 1 किलोमीटर में मीटर = ..... (1000 / 100)

5. 1 मीटर में सेंटीमीटर = ..... (100 / 10)

6. 50 मिमी में सेंटीमीटर = ..... (5 / 50)

## 6. पैटर्न देखकर चौथी घड़ी में सुइयाँ बनाओ।



# कक्षा 5 | विषय : गणित | SA-2

## 7. सही विकल्प चुनकर ✓ लगाओ।

1 मिनट में सेकंड हैं : ☐ 60 सेकंड ☐ 100 सेकंड

1 घंटे में सेकंड हैं : ☐ 3600 ☐ 600

सवा एक कहते हैं : ☐ 1¼ को ☐ 1¾ को

नक्शे में ऊपर दिशा है : ☐ उत्तर ☐ दक्षिण

## 8. केक (8×5) के क्षेत्रफल पर ✓ लगाओ।



☐ 40 वर्ग सेमी ☐ 26 वर्ग सेमी

## 9. दशमलव और भिन्न के प्रश्न हल करो।

(i) 0.5 और 0.05 में से कौन-सी संख्या बड़ी है?

.....

(ii) 3.4 सेमी में कितने सेमी और कितने मिमी हैं?

.....

(iii) 3/5 के समतुल्य तीन तुल्य भिन्न लिखो :

.....

(iv) 12/16 को सरल करके तुल्य भिन्न लिखो :

.....

## 10. ग्रिड में 0.25 व 0.50 भाग में रंग भरो।

ग्रिड-1



ग्रिड-2



## 11. दशमलव व भिन्न पैटर्न को आगे बढ़ाओ।

(i) 0.1, 0.2, 0.3, 0.4, .....

.....

(ii) 1/2, 2/4, 3/6, 4/8, .....

.....

(iii) 0.05, 0.10, 0.15, 0.20, .....

.....

(iv) 1.5, 2.0, 2.5, 3.0, .....

.....

## 12. पाठ्यपुस्तक के प्रश्नों को हल करो।

(i) टमाटर 12 रु./किग्रा है तो 2¼ किग्रा का मूल्य?

.....

(ii) आलू 10 रु./किग्रा है तो 3½ किग्रा का मूल्य?

.....

(iii) 5 मीटर 40 सेमी में कुल कितने सेमी होंगे?

.....

(iv) 4 फीट में कुल कितने इंच होते हैं?

.....

शिक्षक की टिप्पणी : ..... हस्ताक्षर : .....