विद्यालय का नाम : .....

द्वितीय आकलन (SA-2) — सत्र : 2026-27

कक्षा : 5 **विषय : गणित** **दिनांक :** .....

नाम : ..... **रोल नंबर :** .....

सभी प्रश्न हल करो। शिक्षक निर्देश पढ़कर सुना सकते हैं।

1. चाँदे में दिख रहे कोण पर ✓ लगाओ।

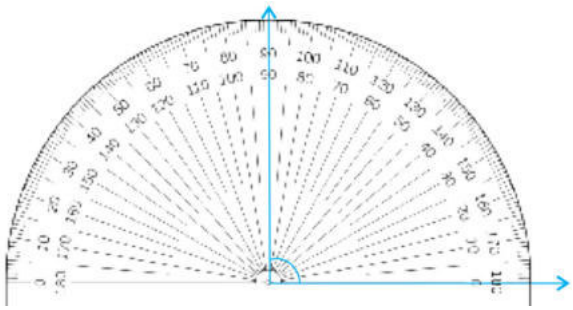

☐ 90° (समकोण) ☐ 45° (न्यून कोण)

2. चित्र देखकर खाली स्थान भरो।



सिटी पैलेस के बाहर कुल ..... बसें हैं। (5 / 8)

3. गुणा और भाग करके खाली स्थान भरो।

1. 350 × 10 = ... (3500 / 350)

2. 125 × 8 = ... (1000 / 800)

3. 450 ÷ 9 = ... (50 / 45)

4. 625 ÷ 25 = ... (25 / 15)

5. भाज्य = भाजक × ..... + शेष (भागफल / योग)

4. छायांकित भाग का मान से मिलान करो।

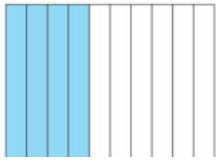

0.48 (48 शतांश)

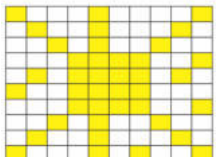

0.4 (4 दशांश)

5. वैदिक गणित के नियमों से रिक्त स्थान भरो।

1. 14 का आधार 10 से विचलन = ... (+4 / −4)

2. 8 का आधार 10 से विचलन = ... (−2 / +2)

3. 106 का आधार 100 से विचलन = ... (+06 / −06)

4. अंक 3 का परम मित्र अंक है = ... (7 / 6)

5. संख्या 47 का एक न्यून मान है = ... (46 / 48)

6. निखिलम सूत्र से 12 × 13 = ... (156 / 146)

6. चौथे बॉक्स में घूर्णन पैटर्न पूरा करो।

(vii) 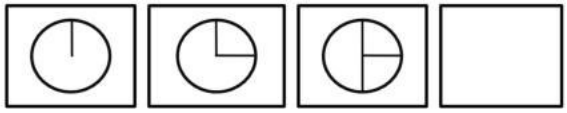

कक्षा 5 | विषय : गणित | SA-2

7. सही विकल्प चुनकर ✓ लगाओ।

परम मित्र का योग : ☐ 10 ☐ 100

1/2 के तुल्य भिन्न : ☐ 2/4 ☐ 1/4

दशांश 1/10 है : ☐ 0.1 ☐ 0.01

1 सेमी में मिमी हैं : ☐ 10 मिमी ☐ 100 मिमी

8. नक्शे में मंदिर की दिशा पर ✓ लगाओ।

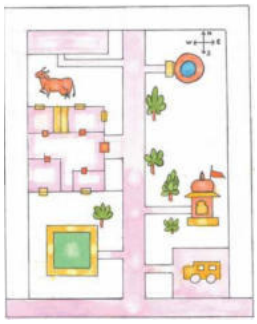

☐ पूरब दिशा में ☐ पश्चिम दिशा में

9. संख्याओं की तुलना और क्रम लिखो।

(i) आरोही क्रम : 40605, 59307, 29705, 35705

.....

(ii) अवरोही क्रम : 51425, 54125, 52325, 51825

.....

(iii) 8, 3, 5, 1, 9 से बनने वाली सबसे बड़ी संख्या :

.....

(iv) 8, 3, 5, 1, 9 से बनने वाली सबसे छोटी संख्या :

.....

10. भिन्न 3/4 और 4/9 के अनुसार रंग भरो।



$\frac{3}{4}$

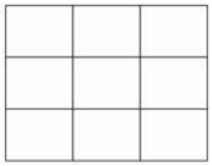

$\frac{4}{9}$

11. त्रिभुजीय व वर्ग संख्या पैटर्न पूरा करो।

(i) त्रिभुजीय संख्याएँ : 1, 3, 6, 10, 15, ...

.....

(ii) वर्ग संख्याएँ : 1, 4, 9, 16, 25, ...

.....

(iii) (12 × 9) + 3 = 111, (123 × 9) + 4 = ...

.....

(iv) 5, 10, 20, 40, 80, ...

.....

12. पाठ्यपुस्तक के प्रश्नों को हल करो।

(i) 120 बच्चे 5 बसों में बराबर बैठे तो 1 बस में कितने?

.....

(ii) 25 टिकटों के 5625 रु. लगे तो 1 टिकट का मूल्य?

.....

(iii) 45 थालियाँ 9675 रु. की हैं तो 1 थाली का मूल्य?

.....

(iv) एक न्यूनेन पूर्वेण से 14 × 99 का मान लिखो :

.....

शिक्षक की टिप्पणी : ..... हस्ताक्षर : .....