विद्यालय का नाम : .....

द्वितीय आकलन (SA-2) — सत्र : 2026-27

कक्षा : 5 **विषय : गणित** **दिनांक :** .....

नाम : ..... **रोल नंबर :** .....

सभी प्रश्न हल करो। शिक्षक निर्देश पढ़कर सुना सकते हैं।

1. मेज के कोने में बने कोण पर ✓ लगाओ।

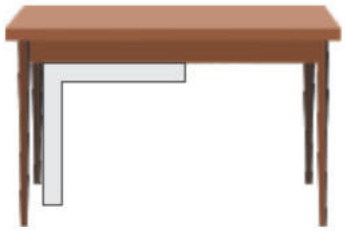

☐ समकोण (90°) ☐ अधिक कोण

2. चित्र देखकर खाली स्थान भरो।



नोट पर गोले में संख्या ..... है। (62005 / 500)

3. स्थानीय मान व संख्या लिखकर भरो।

1. 45,678 में 4 का मान = ... (40000 / 400)

2. 83,215 में 3 का मान = ... (3000 / 300)

3. 72,941 में 9 का अंकित मान = ... (9 / 900)

4. 50000 + 4000 + 300 + 20 + 6 = ... (54326)

5. 99,999 में 1 जोड़ने पर = ... (100000 / 99990)

4. चित्र का उसके सही कोण से मिलान करो।



न्यून कोण (90° से कम)



अधिक कोण (90° से बड़ा)

5. निर्देशानुसार हल करके खाली स्थान भरो।

1. समकोण का मान होता है = ... (90° / 180°)

2. सरल कोण का मान होता है = ... (180° / 90°)

3. 90° से छोटा कोण है = ... (न्यून / अधिक)

4. बाइनरी प्रणाली का आधार है = ... (2 / 10)

5. 1 लाख में शून्यों की संख्या है = ... (5 / 4)

6. 1 मिलियन में लाख होते हैं = ... (10 / 100)

6. घड़ियों में दिए गए कोणों की सुइयाँ बनाओ।

समकोण	समकोण से बड़ा कोण (अधिक कोण)	समकोण से छोटा कोण (न्यून कोण)
		

कक्षा 5 | विषय : गणित | SA-2

7. सही विकल्प चुनकर ✓ लगाओ।

5 अंकीय बड़ी संख्या : ☐ 99,999 ☐ 10,000

5 अंकीय छोटी संख्या : ☐ 10,000 ☐ 99,999

कोण मापने का यंत्र : ☐ चाँदा (डी) ☐ परकार

45° का कोण है : ☐ न्यून कोण ☐ समकोण

8. सूची देखकर लौकी के मूल्य पर ✓ लगाओ।



☐ 12 रुपये (8 + 4) ☐ 20 रुपये

9. संख्याओं को शब्दों या अंकों में लिखो।

(i) 52,585 को शब्दों में लिखो :

.....

(ii) 85,006 को शब्दों में लिखो :

.....

(iii) 'चालीस हजार सात सौ' को अंकों में लिखो :

.....

(iv) 'नब्बे हजार आठ सौ पाँच' को अंकों में लिखो :

.....

10. भिन्न के अनुसार आकृतियों में रंग भरो।

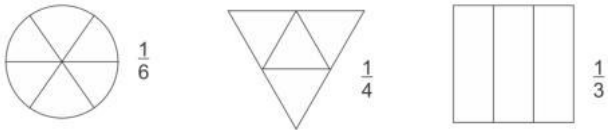

11. संख्या पैटर्न पहचानकर आगे बढ़ाओ।

(i) 26230, 26232, 26234, ...

.....

(ii) 28000, 29000, 30000, ...

.....

(iii) 62200, 62300, 62400, ...

.....

(iv) 11×11 = 121, 111×111 = ...

.....

12. पाठ्यपुस्तक के प्रश्नों को हल करो।

(i) मेले में 1145 ऊँट व 1425 घोड़े कुल कितने हैं?

.....

(ii) 5369 बकरियों व 2778 भेड़ों का योग लिखो :

.....

(iii) 85,200 में से 43,100 घटाने पर कितने बचेंगे?

.....

(iv) 1 बस टिकट 665 रु. है तो 15 टिकट कितने के हैं?

.....

शिक्षक की टिप्पणी : ..... हस्ताक्षर : .....