विद्यालय का नाम : .....

द्वितीय आकलन (SA-2) — सत्र : 2026-27

कक्षा : 4 **विषय : गणित** **दिनांक :** .....

नाम : ..... **रोल नंबर :** .....

सभी प्रश्न हल करो। शिक्षक निर्देश पढ़कर सुना सकते हैं।

1. घड़ी देखकर सही समय पर ✓ लगाओ।



☐ 3 बजकर 10 मिनट ☐ 2 बजकर 15 मिनट

2. चित्र देखकर खाली स्थान भरो।



बोर्ड पर उदयपुर की दूरी ..... किमी है। (150 / 75)

3. इकाइयों को बदलकर खाली स्थान भरो।

1. 4 लीटर = ... मिलीलीटर (4000 / 400)
2. 5 किलोमीटर = ... मीटर (5000 / 500)
3. 6 किलोग्राम = ... ग्राम (6000 / 600)
4. ₹ 8 = ... पैसे (800 / 80)
5. 2 घंटे 5 मिनट = ... मिनट (125 / 65)

4. मुद्रा नोट का सही मान से मिलान करो।



₹ 500 (पाँच सौ)



₹ 100 (एक सौ)

5. समय और परिमाप के रिक्त स्थान भरो।

1. 1 सामान्य वर्ष में दिन = ... (365 / 366)
2. लीप वर्ष की फरवरी में दिन = ... (29 / 28)
3. 1 घंटे में मिनट होते हैं = ... (60 / 100)
4. 1 दिन में घंटे होते हैं = ... (24 / 12)
5. 6 सेमी भुजा के वर्ग का परिमाप = ... (24 / 36)
6. 7 सेमी भुजा के वर्ग का क्षेत्रफल = ... (49 / 28)

6. घड़ियों में दिए गए समय की सुइयाँ बनाओ।



(i) 6 बजकर 00 मिनट (ii) 3 बजकर 45 मिनट (iii) 11 बजकर 30 मिनट

कक्षा 4 | विषय : गणित | SA-2

7. सही विकल्प चुनकर ✓ लगाओ।

क्षेत्रफल की इकाई : ☐ वर्ग मीटर ☐ लीटर

1 सप्ताह में दिन हैं : ☐ 7 दिन ☐ 12 दिन

डिजिटल रुपया है : ☐ e₹ ☐ $

दोपहर 12 के बाद : ☐ अपराह्न ☐ पूर्वाह्न

8. आलेख देखकर पसंदीदा रंग पर ✓ लगाओ।

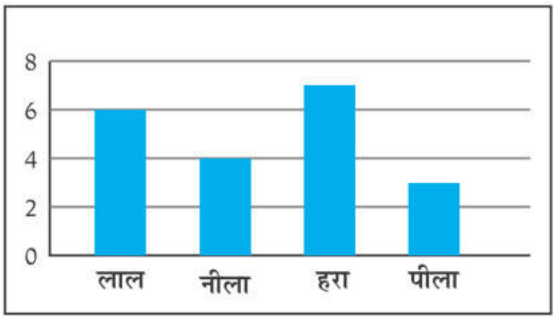

☐ हरा रंग (7 बच्चे) ☐ पीला रंग (3 बच्चे)

9. परिमाप और क्षेत्रफल के प्रश्न हल करो।

(i) आयत का परिमाप ज्ञात करने का सूत्र लिखो :

.....

(ii) वर्ग का परिमाप ज्ञात करने का सूत्र लिखो :

.....

(iii) 8 मी. लंबे व 3 मी. चौड़े कमरे का परिमाप लिखो :

.....

(iv) 20 मी. लंबे व 15 मी. चौड़े मैदान का क्षेत्रफल :

.....

10. ग्रिड में बनी दोनों आकृतियों में रंग भरो।

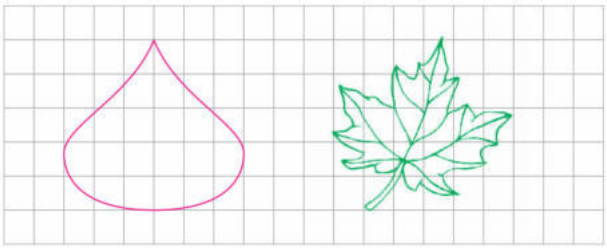

11. संख्या पैटर्न को पहचानकर पूरा करो।

(i) 973, 873, 773, 673, ...

.....

(ii) 7, 157, 307, 457, ...

.....

(iii) 15, 45, 135, ... (3 से गुणा)

.....

(iv) 1+2+3 = 6, 2+3+4 = 9, 3+4+5 = ...

.....

12. पाठ्यपुस्तक के प्रश्नों को हल करो।

(i) ₹18 के समोसे व ₹22 के जूस की कुल कीमत?

.....

(ii) ₹200 में से ₹125 का सामान लेने पर कितने बचे?

.....

(iii) 25 मी. लंबे व 10 मी. चौड़े आँगन का परिमाप?

.....

(iv) वर्गाकार खेत का परिमाप 92 मी. है तो 1 भुजा?

.....

शिक्षक की टिप्पणी : ..... हस्ताक्षर : .....