विद्यालय का नाम : .....

द्वितीय आकलन (SA-2) — सत्र : 2026-27

कक्षा : 4 **विषय : गणित** **दिनांक :** .....

नाम : ..... **रोल नंबर :** .....

सभी प्रश्न हल करो। शिक्षक निर्देश पढ़कर सुना सकते हैं।

1. चित्र देखकर कुल बर्फियों पर ✓ लगाओ।



4 × 8

☐ 32 बर्फियाँ (4 × 8) ☐ 20 बर्फियाँ

2. चित्र देखकर खाली स्थान भरो।



प्याऊ का निर्माण वर्ष ..... है। (2024 / 2010)

3. जोड़ और घटाव करके खाली स्थान भरो।

1. 275 + 125 = ... (400 / 300)
2. 860 − 450 = ... (410 / 510)
3. 715 − 0 = ... (715 / 0)
4. 613 − 613 = ... (0 / 613)
5. 56 + ... = 100 (44 / 54)

4. छायांकित भाग का भिन्न से मिलान करो।

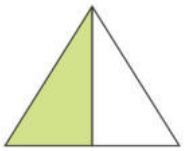

1/4 (एक चौथाई)



1/2 (आधा भाग)

5. खाली स्थान में <, > या = का चिह्न लगाओ।

1. 4572 ..... 7452 (< / >)
2. 9999 ..... 9998 (> / <)
3. 6000 ..... 6000 (= / >)
4. 3/8 ..... 1/8 (> / <)
5. 1/4 ..... 3/4 (< / >)
6. 5/8 ..... 5/8 (= / <)

6. बचे हुए आधे (1/2) भाग का चित्र पूरा करो।

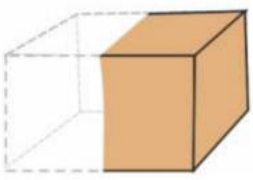



कक्षा 4 | विषय : गणित | SA-2

7. सही विकल्प चुनकर ✓ लगाओ।

1 दर्जन में वस्तुएँ : ☐ 12 ☐ 10

शून्य की खोज की : ☐ आर्यभट्ट ने ☐ कुंभा ने

भिन्न 3/5 में अंश है : ☐ 3 ☐ 5

चौथाई भाग होता है : ☐ 1/4 ☐ 1/2

8. चित्र देखकर सही परिमाप पर ✓ लगाओ।

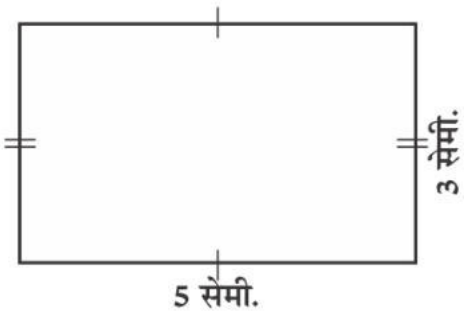

☐ परिमाप 16 सेमी है ☐ परिमाप 8 सेमी है

9. निर्देशानुसार संख्याओं को क्रम में लिखो।

(i) आरोही क्रम : 875, 89, 630, 75, 237

.....

(ii) अवरोही क्रम : 874, 398, 1208, 2654

.....

(iii) अंक 5, 1, 7, 8 से बनने वाली सबसे बड़ी संख्या :

.....

(iv) अंक 5, 1, 7, 8 से बनने वाली सबसे छोटी संख्या :

.....

10. भिन्न के अनुसार आकृतियों में रंग भरो।

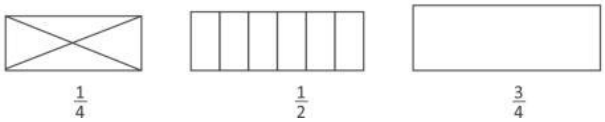

11. पहाड़े व गुणा के पैटर्न को पूरा करो।

(i) 7, 14, 21, 28, 35, ...

.....

(ii) 12, 24, 36, 48, 60, ...

.....

(iii) 8 × 1 = 8, 8 × 2 = 16, 8 × 3 = 24, ...

.....

(iv) 10, 20, 30, 40, 50, ...

.....

12. पाठ्यपुस्तक के प्रश्नों को हल करो।

(i) 1 दर्जन केले 50 रु. के हैं तो 3 दर्जन कितने के होंगे?

.....

(ii) 8 क्यारियों में 4-4 पौधे हैं तो कुल कितने पौधे हैं?

.....

(iii) 1 कॉपी का मूल्य 15 रु. है तो 9 कॉपियों का मूल्य?

.....

(iv) 1 टीम में 11 खिलाड़ी हों तो 12 टीमों में कितने होंगे?

.....

शिक्षक की टिप्पणी : ..... हस्ताक्षर : .....