विद्यालय का नाम : .....

द्वितीय आकलन (SA-2) — सत्र : 2026-27

कक्षा : 2 **विषय : गणित** **दिनांक :** .....

नाम : ..... **रोल नंबर :** .....

सभी प्रश्न हल करो। शिक्षक निर्देश पढ़कर सुना सकते हैं।

1. तराजू का चित्र देखकर सही पर ✓ लगाओ।



☐ तरबूज भारी है ☐ पपीता भारी है

2. चित्र देखकर खाली स्थान भरो।



शारदा के चित्र में कुल ..... टाईल हैं। (70 / 81)

3. दहाई और इकाई अलग-अलग लिखो।

1. संख्या 39 में = ... दहाई और 9 इकाई (3 / 9)
2. संख्या 48 में = 4 दहाई और ..... इकाई (8 / 4)
3. संख्या 65 में = ... दहाई और 5 इकाई (6 / 5)
4. संख्या 82 में = 8 दहाई और ..... इकाई (2 / 8)
5. संख्या 90 में = ... दहाई और 0 इकाई (9 / 0)

4. चित्र देखकर सही मिलान करो।



खिसकने वाली वस्तु



लुढ़कने वाली वस्तु

5. हल करके सही उत्तर चुनकर लिखो।

1. हल करो : 11 + 19 = ... (30 / 20)
2. हल करो : 25 + 14 = ... (39 / 49)
3. हल करो : 32 + 17 = ... (49 / 39)
4. हल करो : 27 – 7 = ... (20 / 17)
5. हल करो : 35 – 23 = ... (12 / 22)
6. हल करो : 50 – 35 = ... (15 / 25)

6. बिंदुओं को मिलाकर चित्र पूरा करो।

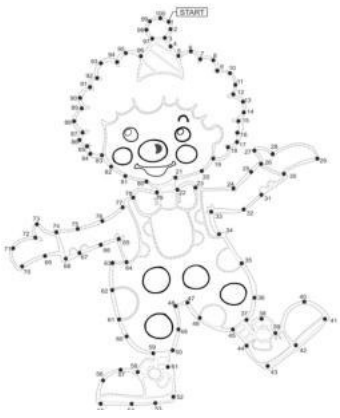

कक्षा 2 | विषय : गणित | SA-2

7. सही विकल्प चुनकर ✓ लगाओ।

समोसे की आकृति : ☐ तिकोनी ☐ गोल

फरवरी से पहले का माह : ☐ जनवरी ☐ मार्च

89 और 96 में बड़ी : ☐ 96 ☐ 89

₹50 + ₹10 + ₹5 : ☐ ₹65 ☐ ₹55

8. चित्र देखकर सही पर ✓ लगाओ।



☐ कारें ऑटो से ज्यादा हैं ☐ ऑटो कारों से ज्यादा हैं

9. ठीक पहले, बाद व बीच की संख्या लिखो।

(i) 59 के ठीक बाद आने वाली संख्या लिखो :

.....

(ii) 80 से ठीक पहले आने वाली संख्या लिखो :

.....

(iii) 74 और 76 के ठीक बीच की संख्या लिखो :

.....

(iv) 41 और 43 के ठीक बीच की संख्या लिखो :

.....

10. दिए गए चित्र में सुंदर रंग भरो।

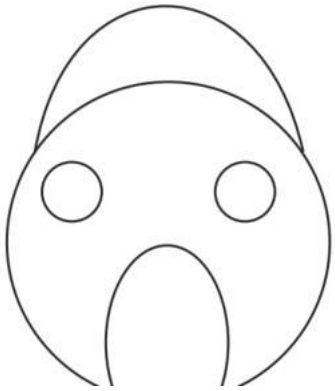

11. पैटर्न व संख्या क्रम पूरा करो।

(i) 2-2 की छलांग का पैटर्न : 55, 57, 59, ..., ...

.....

(ii) 7-7 की कूद का पैटर्न : 42, 49, 56, ..., ...

.....

(iii) 2-2 का घटता पैटर्न : 45, 43, 41, ..., ...

.....

(iv) 10-10 का पैटर्न : 50, 60, 70, 80, ..., ...

.....

12. छोटे प्रश्न हल करके लिखो।

(i) पहली पंगत में 17 व दूसरी में 5 लोग हैं। कुल कितने हैं?

.....

(ii) ₹100 में से ₹65 की सब्जी ली, तो कितने रुपये बचेंगे?

.....

(iii) 8 बच्चों ने 3-3 खिलौने लिए। कुल कितने खिलौने हैं?

.....

(iv) 1 ऊँट पर 2 बच्चे बैठें, तो 10 बच्चों को कितने ऊँट?

.....

शिक्षक की टिप्पणी : ..... हस्ताक्षर : .....