विद्यालय का नाम : .....

द्वितीय आकलन (SA-2) — सत्र : 2026-27

कक्षा : 2 **विषय : गणित** **दिनांक :** .....

नाम : ..... **रोल नंबर :** .....

सभी प्रश्न हल करो। शिक्षक निर्देश पढ़कर सुना सकते हैं।

1. चित्र देखकर सही पर ✓ लगाओ।

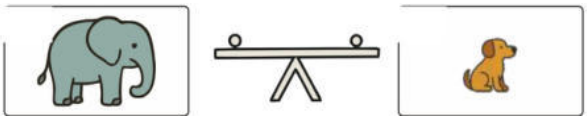

☐ हाथी भारी है ☐ कुत्ता भारी है

2. चित्र देखकर खाली स्थान भरो।



मैदान में कुल ..... घोड़े दौड़ रहे हैं। (3 / 5)

3. सिक्कों और नोटों को जोड़कर मूल्य लिखो।

1. ₹5 का सिक्का + ₹2 का सिक्का = ₹..... (7 / 9)

2. ₹10 का नोट + ₹5 का सिक्का = ₹..... (15 / 50)

3. ₹20 का नोट + ₹10 का नोट = ₹..... (30 / 20)

4. ₹50 का नोट + ₹10 का नोट = ₹..... (60 / 40)

5. ₹50 का नोट + ₹20 का नोट = ₹..... (70 / 80)

4. चित्र देखकर वस्तुएँ गिनकर संख्या लिखो।



मटके = ... (6 / 8)



आम = ... (10 / 6)

5. बार-बार जोड़ (समान समूह) हल करो।

1. जोड़ो : 3 + 3 + 3 = ...

2. जोड़ो : 4 + 4 + 4 + 4 = ...

3. जोड़ो : 5 + 5 + 5 = ...

4. जोड़ो : 2 + 2 + 2 + 2 = ...

5. जोड़ो : 6 + 6 + 6 = ...

6. जोड़ो : 10 + 10 + 10 = ...

6. बिंदुओं को मिलाकर रंगोली पूरी करो।

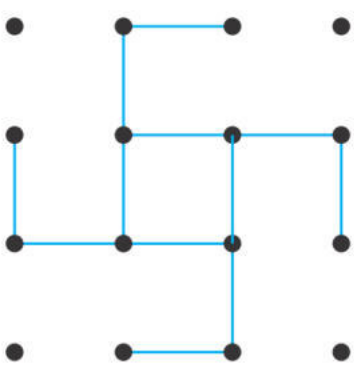

कक्षा 2 | विषय : गणित | SA-2

7. सही विकल्प चुनकर ✓ लगाओ।

माचिस की आकृति : ☐ चौकोर ☐ गोल

रविवार के बाद आता है : ☐ सोमवार ☐ बुधवार

5 × 0 का मान होगा : ☐ 0 ☐ 5

10 मोती की 5 माला : ☐ 50 मोती ☐ 15 मोती

8. चित्र देखकर सही पर ✓ लगाओ।



☐ भिंडी महँगी है ☐ टमाटर महँगे हैं

9. बराबर-बराबर बँटवारा करके लिखो।

(i) 24 चॉकलेट 3 बच्चों में बराबर बाँटने पर मिलेंगी :

.....

(ii) 16 केले 4 बच्चों में बराबर बाँटने पर मिलेंगे :

.....

(iii) 20 पेन्सिलें 5 बच्चों में बराबर बाँटने पर मिलेंगी :

.....

(iv) 18 बरफी 3 बच्चों में बराबर बाँटने पर मिलेंगी :

.....

10. दिए गए फूल के चित्र में सुंदर रंग भरो।

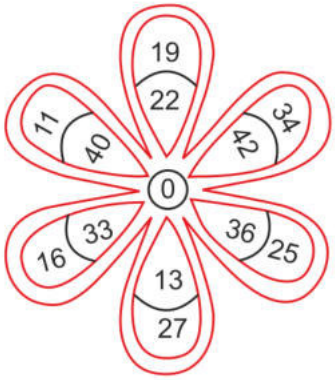

11. आकृति व संख्या पैटर्न आगे बढ़ाओ।

(i) आकृति पैटर्न : □, △, □, △, ..., ...

.....

(ii) आकृति पैटर्न : △, △, ○, △, △, ○, ..., ...

.....

(iii) 3-3 की कूद का पैटर्न : 3, 6, 9, 12, ..., ...

.....

(iv) 10-10 का पैटर्न : 10, 20, 30, 40, ..., ...

.....

12. छोटे प्रश्न हल करके लिखो।

(i) तालाब में 24 व किनारे पर 12 मेंढक हैं। कुल कितने हैं?

.....

(ii) पेड़ पर 53 आम थे, 23 तोड़ लिए। अब कितने बचे?

.....

(iii) 1 शर्ट में 5 बटन हैं, तो 4 शर्ट में कुल कितने बटन हैं?

.....

(iv) 10 पेंसिलें 2-2 करके बाँटने पर कितनों को मिलेंगी?

.....

शिक्षक की टिप्पणी : ..... हस्ताक्षर : .....