विद्यालय का नाम : .....

द्वितीय आकलन (SA-2) — सत्र : 2026-27

कक्षा : 1 **विषय : गणित** **दिनांक :** .....

नाम : ..... **रोल नंबर :** .....

सभी प्रश्न हल करो। शिक्षक निर्देश पढ़कर सुना सकते हैं।

1. सिक्कों के कुल मूल्य पर ✓ लगाओ।



☐ ₹ 5 (2 + 2 + 1) ☐ ₹ 10

2. चित्र देखकर खाली स्थान भरो।



3 में से 1 आईसक्रीम लेने पर ..... बचीं। (2 / 3)

3. बराबर समूह व जोड़ से खाली स्थान भरो।

1. 1 हाथ में 5 अँगुली, तो 2 हाथों में = ... (10 / 8)

2. 1 व्यक्ति के 2 मोजे, तो 3 लोगों के = ... (6 / 4)

3. 2 + 2 + 2 + 2 का कुल योग है = ... (8 / 6)

4. 6 रोटियाँ 2 बच्चों में बराबर बाँटने पर = ... (3 / 2)

5. 10 टमाटर 2 टोकरी में बराबर रखने पर = ... (5 / 4)

4. चित्र का सही संख्या से मिलान करो।



6 पहिये (ट्रक)



8 पैर (मकड़ी)

5. खाली स्थान में सही संख्या चुनकर भरो।

1. 8 + ... = 16 (8 / 6)

2. 9 + ... = 16 (7 / 5)

3. 9 − 6 = ... (3 / 4)

4. 12 − 7 = ... (5 / 6)

5. 9 + 0 = ... (9 / 0)

6. 11 − 3 = ... (8 / 7)

6. फूलों की अधूरी माला को पूरा करो।

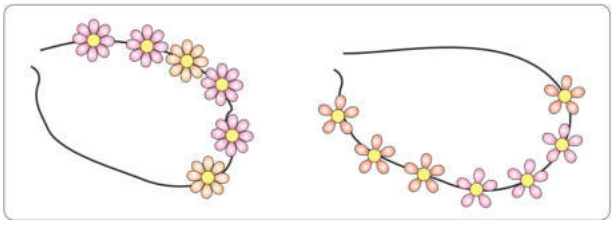

कक्षा 1 | विषय : गणित | SA-2

7. सही विकल्प चुनकर ✓ लगाओ।

1 तोते के पैर हैं : ☐ 2 पैर ☐ 4 पैर

5 तोतों के कुल पैर : ☐ 10 पैर ☐ 5 पैर

2 तीली 5 बार हैं : ☐ 10 तीली ☐ 7 तीली

18 मोती 3 माला में : ☐ 6-6 मोती ☐ 3-3 मोती

8. पोटली में बची गाजरों पर ✓ लगाओ।



☐ 6 गाजर (10 – 4) ☐ 9 गाजर

9. बार-बार जोड़ के प्रश्न हल करो।

(i) 2 + 2 + 2 का मान लिखो :

.....

(ii) 3 + 3 + 3 का मान लिखो :

.....

(iii) 4 + 4 + 4 का मान लिखो :

.....

(iv) 5 + 5 + 5 का मान लिखो :

.....

10. बाग की सैर के चित्र में सुंदर रंग भरो।



11. छलाँग पैटर्न पहचानकर आगे बढ़ाओ।

(i) 2, 4, 6, 8, ...

.....

(ii) 3, 6, 9, 12, ...

.....

(iii) 4, 8, 12, 16, ...

.....

(iv) 15, 13, 11, 9, ...

.....

12. पाठ्यपुस्तक के प्रश्नों को हल करो।

(i) पेड़ पर 9 आम थे, 3 गिर गए तो कितने आम बचे?

.....

(ii) ऑटो में 4 सवारी थीं, 3 और बैठीं तो कुल कितनी?

.....

(iii) बस में 20 यात्री थे, 9 उतर गए तो कितने बचे?

.....

(iv) 15 बैंगन 3 टोकरी में बराबर रखने पर 1 में कितने?

.....

शिक्षक की टिप्पणी : ..... हस्ताक्षर : .....