विद्यालय का नाम : .....

द्वितीय आकलन (SA-2) — सत्र : 2026-27

कक्षा : 1 **विषय : गणित** **दिनांक :** .....

नाम : ..... **रोल नंबर :** .....

सभी प्रश्न हल करो। शिक्षक निर्देश पढ़कर सुना सकते हैं।

1. झूले पर बैठे भारी जानवर पर ✓ लगाओ।



☐ हाथी (भारी) ☐ बंदर (हल्का)

2. चित्र देखकर खाली स्थान भरो।



6 दीये और 2 दीये मिलकर कुल ..... दीये हैं। (8 / 4)

3. जोड़ और घटाव करके खाली स्थान भरो।

1. 4 + 5 = ... (9 / 8)
2. 7 + 5 = ... (12 / 10)
3. 6 + 3 = ... (9 / 7)
4. 8 − 3 = ... (5 / 6)
5. 9 − 3 = ... (6 / 5)

4. नोट का उसके मूल्य से मिलान करो।



₹ 50 (पचास रुपये)



₹ 10 (दस रुपये)

5. सिक्कों व संख्याओं के सही मान भरो।

1. ₹ 5 और ₹ 2 के सिक्के मिलकर = ... (₹ 7 / ₹ 5)
2. ₹ 5 और ₹ 5 के सिक्के मिलकर = ... (₹ 10 / ₹ 8)
3. ₹ 10 व ₹ 10 के नोट मिलकर = ... (₹ 20 / ₹ 15)
4. 5 दहाई और 5 इकाई से बनी संख्या = ... (55 / 50)
5. 7 दहाई और 2 इकाई से बनी संख्या = ... (72 / 27)
6. 10 दहाई से बनने वाली संख्या है = ... (100 / 10)

6. झंडियों में छूटी हुई संख्या लिखकर भरो।

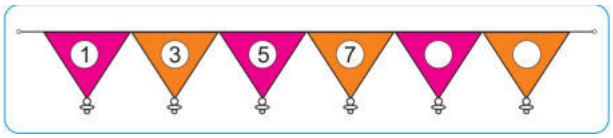

कक्षा 1 | विषय : गणित | SA-2

7. सही विकल्प चुनकर ✓ लगाओ।

3 + 3 का मान है : ☐ 6 ☐ 5

7 में से 3 घटाने पर : ☐ 4 ☐ 5

बड़ा नोट कौन-सा है : ☐ ₹ 100 ☐ ₹ 20

99 के बाद आता है : ☐ 100 ☐ 98

8. दुकान पर 1 पेंसिल के मूल्य पर ✓ लगाओ।



☐ 5 रुपये ☐ 20 रुपये

9. घटाव के प्रश्नों को हल करके लिखो।

(i) 14 – 5 = कितना बचेगा?

.....

(ii) 18 – 6 = कितना बचेगा?

.....

(iii) 20 – 7 = कितना बचेगा?

.....

(iv) 16 – 4 = कितना बचेगा?

.....

10. बिंदु मिलाकर दोनों बोतलों में रंग भरो।

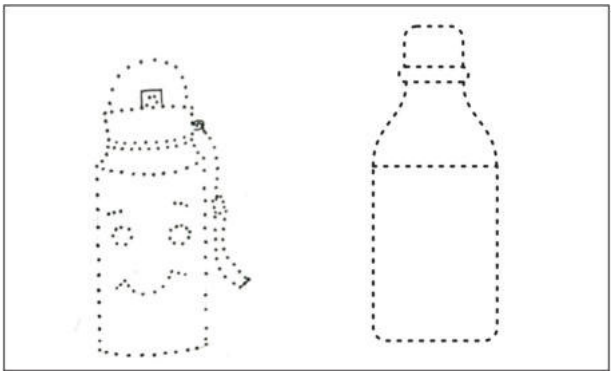

11. आगे की गिनती लिखकर पैटर्न पूरा करो।

(i) 41, 42, 43, 44, ...

.....

(ii) 61, 62, 63, 64, ...

.....

(iii) 81, 82, 83, 84, ...

.....

(iv) 50, 60, 70, 80, ...

.....

12. पाठ्यपुस्तक के प्रश्नों को हल करो।

(i) 5 चकरी और 3 चकरी मिलकर कुल कितनी हुई?

.....

(ii) दादाजी ने 7 आम खरीदे व 3 खा लिए, कितने बचे?

.....

(iii) राधा के 6 व गीता के 7 सिक्कों में किसके ज्यादा?

.....

(iv) टोकरी में 5 आम थे, 1 निकाला तो कितने बचे?

.....

शिक्षक की टिप्पणी : ..... हस्ताक्षर : .....