विद्यालय का नाम : .....

द्वितीय आकलन (SA-2) — सत्र : 2026-27

कक्षा : 1 **विषय : गणित** **दिनांक : .....**

नाम : ..... **रोल नंबर : .....**

सभी प्रश्न हल करो। शिक्षक निर्देश पढ़कर सुना सकते हैं।

1. दोनों में से बड़ी खिड़की पर ✓ लगाओ।



☐ 5 बालिश्त वाली ☐ 3 बालिश्त वाली

2. चित्र देखकर खाली स्थान भरो।



दादाजी के परिवार में कुल ..... सदस्य हैं। (6 / 3)

3. 1 से 9 तक की गिनती से रिक्त स्थान भरो।

1. एक हाथ में अँगुलियाँ होती हैं = ... (5 / 4)
2. गाय के पैरों की संख्या है = ... (4 / 2)
3. तोते की चोंच की संख्या है = ... (1 / 2)
4. तिपहिया ऑटो में पहिये हैं = ... (3 / 4)
5. सब गुब्बारे फूटने पर बचे = ... (0 / 5)

4. चित्र गिनकर सही संख्या से मिलान करो।



5 (पाँच गेंदें)



2 (दो तोते)

5. सही अंक चुनकर खाली स्थान भरो।

1. संख्या 'तीन' को अंकों में लिखते हैं = ... (3 / 6)
2. संख्या 'पाँच' को अंकों में लिखते हैं = ... (5 / 8)
3. संख्या 'सात' को अंकों में लिखते हैं = ... (7 / 9)
4. संख्या 'नौ' को अंकों में लिखते हैं = ... (9 / 6)
5. 5 में 1 जोड़ने पर संख्या बनती है = ... (6 / 4)
6. 8 से ठीक बाद आने वाली संख्या है = ... (9 / 7)

6. बिंदुओं पर पेंसिल चलाकर 1 से 5 लिखो।

1 •	1 1 1 1 1 1 1
2 ••	2 2 2 2 2 2 2
3 •••	3 3 3 3 3 3 3
4 ••••	4 4 4 4 4 4 4
5 •••••	5 5 5 5 5 5 5

7. सही विकल्प चुनकर ✓ लगाओ।

ज्यादा जगह घेरता है : ☐ हाथी ☐ खरगोश

दोनों हाथों में अँगुलियाँ : ☐ 10 ☐ 5

मेज व कुर्सी में बड़ी है : ☐ मेज ☐ कुर्सी

6 और 3 में बड़ी संख्या : ☐ 6 ☐ 3

8. बस स्टॉप पर कुल लोगों पर ✓ लगाओ।



☐ 8 लोग ☐ 3 लोग

9. संख्याओं को शब्दों में लिखो।

(i) संख्या 4 को शब्दों में लिखो :

.....

(ii) संख्या 6 को शब्दों में लिखो :

.....

(iii) संख्या 8 को शब्दों में लिखो :

.....

(iv) संख्या 10 को शब्दों में लिखो :

.....

10. बिंदुओं को मिलाकर फलों में रंग भरो।

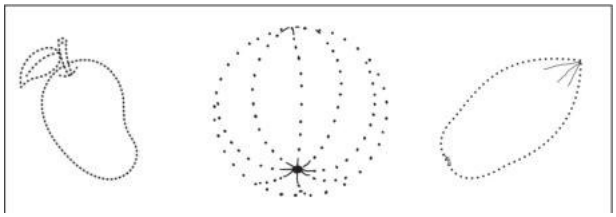

11. छूटी हुई संख्या लिखकर क्रम पूरा करो।

(i) 1, 2, 3, 4, ...

.....

(ii) 5, 6, 7, 8, ...

.....

(iii) 5, 4, 3, 2, ...

.....

(iv) 9, 8, 7, 6, ...

.....

12. पाठ्यपुस्तक के प्रश्नों को हल करो।

(i) रौनक की माला में 5 फूल थे, 1 और जोड़ा तो कितने?

.....

(ii) 8 सतोलियों में 1 और मिला तो कुल कितने हुए?

.....

(iii) लड़की के हाथ में 5 गुब्बारे थे, 1 फूटा तो कितने बचे?

.....

(iv) अपनी पेंसिल को अँगुल से मापकर लंबाई लिखो :

.....

शिक्षक की टिप्पणी : ..... हस्ताक्षर : .....