विद्यालय का नाम : .....

द्वितीय आकलन (SA-2) — सत्र : 2026-27

कक्षा : 1 **विषय : गणित** **दिनांक :** .....

नाम : ..... **रोल नंबर :** .....

सभी प्रश्न हल करो। शिक्षक निर्देश पढ़कर सुना सकते हैं।

1. पेड़ के ऊपर बैठे जीव पर ✓ लगाओ।



☐ चिड़िया (ऊपर) ☐ खरगोश (नीचे)

2. चित्र देखकर खाली स्थान भरो।

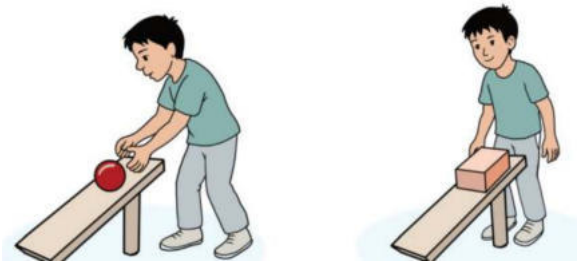

गेंद लुढ़कती है व बॉक्स ..... है। (खिसकता / उड़ता)

3. सही शब्द चुनकर खाली स्थान भरो।

1. तरबूज और सेब में बड़ा है = ... (तरबूज / सेब)
2. रेलगाड़ी और कार में छोटी है = ... (कार / रेल)
3. क्रिकेट की गेंद ..... है। (लुढ़कती / खिसकती)
4. माचिस की डिब्बी ..... है। (खिसकती / लुढ़कती)
5. गिलास लुढ़कता व ..... है। (खिसकता / उड़ता)

4. वस्तु का उसकी आकृति से मिलान करो।



तिकोना (समोसा)



गोल (गेंद)

5. निर्देशानुसार सही उत्तर चुनकर भरो।

1. लड्डू की आकृति होती है = ... (गोल / चौकोर)
2. बर्फी की आकृति होती है = ... (चौकोर / गोल)
3. छाते का उपयोग करते हैं = ... (बरसात / गर्मी)
4. ऊनी टोपी पहनते हैं = ... (सर्दी / गर्मी)
5. कुल्फी और आम खाते हैं = ... (गर्मी / सर्दी)
6. किताब की सतह होती है = ... (चौकोर / गोल)

6. बिंदुओं को मिलाकर आकृतियाँ पूरी करो।

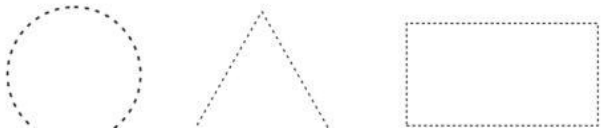

कक्षा 1 | विषय : गणित | SA-2

7. सही विकल्प चुनकर ✓ लगाओ।

मटका और कप में बड़ा : ☐ मटका ☐ कप

सुबह उठकर करते हैं : ☐ मंजन ☐ रात्रिभोज

लुढ़कने वाली वस्तु है : ☐ बेलन ☐ संदूक

रोटी का आकार है : ☐ गोल ☐ चौकोर

8. मेज के नीचे बैठे जीव पर ✓ लगाओ।



☐ बिल्ली (नीचे) ☐ लड़का (ऊपर)

9. दिए गए प्रश्नों के उत्तर लिखो।

(i) लुढ़कने वाली किन्हीं 2 वस्तुओं के नाम लिखो :

.....

(ii) खिसकने वाली किन्हीं 2 वस्तुओं के नाम लिखो :

.....

(iii) गोल आकृति की किन्हीं 2 वस्तुओं के नाम लिखो :

.....

(iv) चौकोर आकृति की किन्हीं 2 वस्तुओं के नाम लिखो :

.....

10. घर और पेड़ के चित्र में सुंदर रंग भरो।

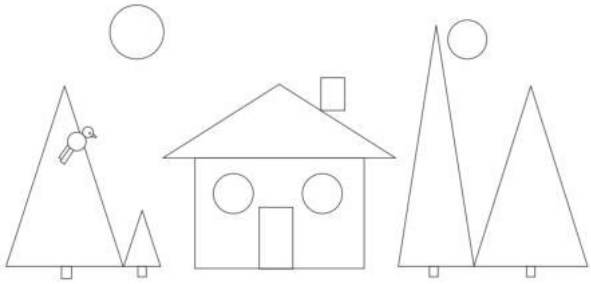

11. आकृति व शब्द पैटर्न को आगे बढ़ाओ।

(i) ○, △, ○, △, ○, ...

.....

(ii) □, ○, □, ○, □, ...

.....

(iii) सेब, आम, सेब, आम, ...

.....

(iv) △, △△, △△△, ...

.....

12. पाठ्यपुस्तक के प्रश्नों को हल करो।

(i) अपने बस्ते में रखी सबसे बड़ी वस्तु का नाम लिखो :

.....

(ii) अपने बस्ते में रखी सबसे छोटी वस्तु का नाम लिखो :

.....

(iii) आसमान में उड़ने वाली पतंग ऊपर है या नीचे?

.....

(iv) पेड़ की जड़ जमीन के अन्दर होती है या बाहर?

.....

शिक्षक की टिप्पणी : ..... हस्ताक्षर : .....