विद्यालय का नाम : .....

द्वितीय आकलन (SA-2) — सत्र : 2026-27

कक्षा : 1 **विषय : गणित** **दिनांक :** .....

नाम : ..... **रोल नंबर :** .....

सभी प्रश्न हल करो। शिक्षक निर्देश पढ़कर सुना सकते हैं।

1. चित्र देखकर सही पर ✓ लगाओ।



☐ खरगोश भारी है ☐ गिलहरी भारी है

2. आकृतियाँ गिनकर खाली स्थान भरो।

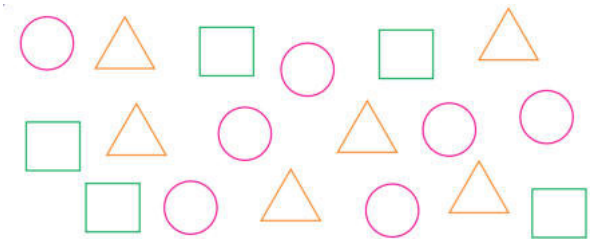

चित्र में चौकोर (☐) आकृतियाँ ..... हैं। (5 / 6)

3. संख्याओं को तोड़कर खाली स्थान भरो।

1. संख्या 17 = 10 + ... (7 / 1)

2. संख्या 24 = 20 + ... (4 / 2)

3. संख्या 38 = ... + 8 (30 / 3)

4. संख्या 45 = 40 + ... (5 / 4)

5. संख्या 56 = ... + 6 (50 / 5)

4. सिक्कों को गिनकर उनका कुल मूल्य लिखो।



कुल मूल्य = ₹..... (7 / 10)



कुल मूल्य = ₹..... (19 / 15)

5. खाली स्थान में छूटी हुई संख्या भरो।

1. भरो : 8 + ... = 12

2. भरो : 9 + ... = 16

3. भरो : ..... + 5 = 15

4. भरो : 7 – ..... = 2

5. भरो : 11 – ..... = 5

6. भरो : ..... – 4 = 6

6. बिंदुओं को मिलाकर चित्र पूरा करो।



कक्षा 1 | विषय : गणित | SA-2

7. सही विकल्प चुनकर ✓ लगाओ।

ईंट ढलान पर : ☐ खिसकेगी ☐ लुढ़केगी

4 दहाई और 5 इकाई : ☐ 45 ☐ 54

28 और 32 में बड़ी : ☐ 32 ☐ 28

₹10 + ₹5 + ₹2 : ☐ ₹17 ☐ ₹15

8. चित्र देखकर सही पर ✓ लगाओ।

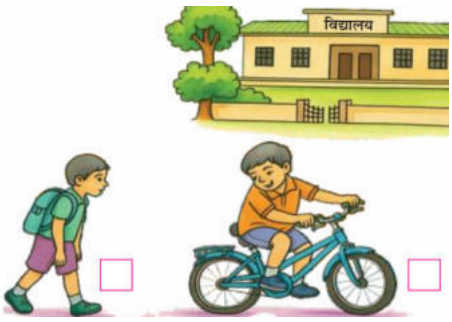

☐ साइकिल से कम समय ☐ पैदल कम समय

9. बराबर-बराबर बँटवारा करके लिखो।

(i) 15 बैंगन 3 टोकरी में बराबर रखने पर 1 टोकरी में कितने होंगे?

.....

(ii) 18 मोतियों से 3 बराबर माला बनाने पर हर माला में कितने मोती होंगे?

.....

(iii) 20 आम 2-2 के समूह में बाँटने पर कुल कितने मित्रों को मिलेंगे?

.....

(iv) 12 चॉकलेट से 4-4 के कुल कितने समूह बनाए जा सकते हैं?

.....

10. दिए गए घर के चित्र में सुंदर रंग भरो।

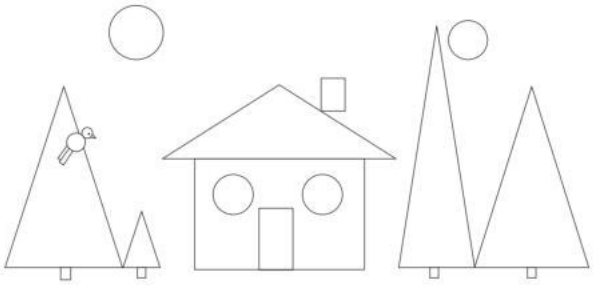

11. पैटर्न व संख्या क्रम पूरा करो।

(i) 2-2 की छलांग का पैटर्न : 1, 3, 5, 7, ..., ...

.....

(ii) 3-3 की कूद का पैटर्न : 3, 6, 9, 12, ..., ...

.....

(iii) 5-5 की कूद का पैटर्न : 5, 10, 15, 20, ..., ...

.....

(iv) घटता हुआ पैटर्न : 15, 13, 11, 9, ..., ...

.....

12. छोटे प्रश्न हल करके लिखो।

(i) बस में 20 लोग यात्रा कर रहे थे, 9 उतर गए। अब कितने यात्री बचे?

.....

(ii) एक ऑटो में 7 लोग और दूसरे में 6 लोग बैठे हैं। कुल कितने लोग हैं?

.....

(iii) ₹10 के बिस्किट, ₹5 की पेंसिल व ₹2 के रबड़ का कुल मूल्य क्या होगा?

.....

(iv) 1 मकड़ी के 8 पैर होते हैं, तो 2 मकड़ियों के कुल कितने पैर होंगे?

.....

शिक्षक की टिप्पणी : ..... हस्ताक्षर : .....