विद्यालय का नाम : .....

द्वितीय आकलन (SA-2) — सत्र : 2026-27

कक्षा : 1 **विषय : गणित** **दिनांक :** .....

नाम : ..... **रोल नंबर :** .....

सभी प्रश्न हल करो। शिक्षक निर्देश पढ़कर सुना सकते हैं।

1. चित्र में तोते गिनकर सही पर ✓ लगाओ।



☐ कुल 6 तोते हैं ☐ कुल 4 तोते हैं

2. चित्र में सेब जोड़कर खाली स्थान भरो।



4 सेब और 2 सेब मिलकर ..... सेब हैं। (6 / 8)

3. शब्दों में लिखी संख्या को अंकों में लिखो।

1. पाँच को अंकों में लिखो = ... (5 / 8)
2. नौ को अंकों में लिखो = ... (9 / 6)
3. बारह को अंकों में लिखो = ... (12 / 21)
4. पंद्रह को अंकों में लिखो = ... (15 / 51)
5. बीस को अंकों में लिखो = ... (20 / 02)

4. चित्र गिनकर सामने कुल संख्या लिखो।



नींबू = ... (5 / 7)



फूल = ... (6 / 8)

5. निर्देशानुसार जोड़ व घटाव कर संख्या भरो।

1. 3 में 1 मिलाने पर = ...
2. 5 में 2 मिलाने पर = ...
3. 7 में 0 मिलाने पर = ...
4. 4 में से 1 कम करने पर = ...
5. 6 में से 6 कम करने पर = ...
6. 8 में से 2 कम करने पर = ...

6. बिंदुओं को मिलाकर फलों के चित्र पूरे करो।



कक्षा 1 | विषय : गणित | SA-2

7. सही या गलत चुनकर ✓ लगाओ।

1 हाथ में 5 अँगुली : ☐ सही ☐ गलत

रोटी गोल होती है : ☐ सही ☐ गलत

9 के बाद 10 आता है : ☐ सही ☐ गलत

₹2 और ₹2 = ₹6 हैं : ☐ सही ☐ गलत

8. चित्र देखकर सही पर ✓ लगाओ।



☐ डिब्बे के अन्दर लड्डू ☐ डिब्बे के अन्दर टॉफी

9. छोटी और बड़ी संख्या छांटकर लिखो।

(i) 16 और 11 में बड़ी संख्या कौन-सी है? लिखो :

.....

(ii) 18 और 12 में छोटी संख्या कौन-सी है? लिखो :

.....

(iii) 10, 15 और 12 में सबसे बड़ी संख्या लिखो :

.....

(iv) 14, 8 और 19 में सबसे छोटी संख्या लिखो :

.....

10. छोटी वस्तु (रबड़) के चित्र में रंग भरो।

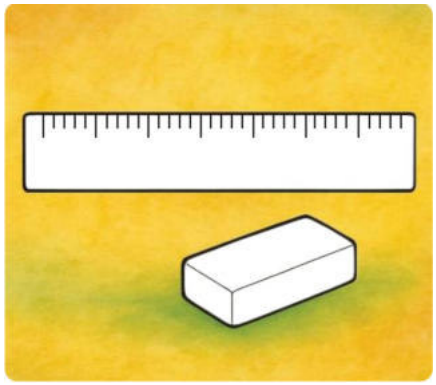

11. बीच की छूटी हुई संख्याएँ लिखो।

(i) छूटी संख्या भरो : 1, 2, ..., 4, ..., 6

.....

(ii) छूटी संख्या भरो : 11, ..., 13, ..., 15, 16

.....

(iii) 10-10 के समूह : 10, 20, ..., 40, ..., 60

.....

(iv) उल्टी गिनती भरो : 10, 9, ..., 7, ..., 5

.....

12. छोटे प्रश्न हल करके लिखो।

(i) माला में 5 फूल हैं, 1 फूल और जोड़ने पर कुल कितने फूल होंगे?

.....

(ii) 6 गुब्बारों में से 2 गुब्बारे फूट गए। अब कितने गुब्बारे बचे?

.....

(iii) ₹5 के नोट और ₹5 के सिक्के को मिलाकर कुल कितने रुपये होंगे?

.....

(iv) 1 व्यक्ति ने 2 मोजे पहने हैं, तो 2 लोगों ने कुल कितने मोजे पहने हैं?

.....

शिक्षक की टिप्पणी : ..... हस्ताक्षर : .....